Fomesoutra.com
ça soutra!

Groupe Saint Brice
Provincial Grâces

Nom :……	Durée : 1 heure Classe : 5 ème	Date :
Prénom (s) :…… ……	Note	Appréciation

Devoir des Sciences de la Vie et de la Terre (SVT)

Exercice 1

M. ZOKOU découvre un jour dans un champ de nouveaux champignons sur un tronc de palmier mort il arrache en laissant un seul. Quelques jours plus tard, il est surpris de voir que le tronc du palmier est envahi de nouveau de champignons. Il cherche à comprendre ce qui s'est passé. Pour cela, il présente le document ci-dessous montrant un mode de reproduction chez les champignons à chapeau.

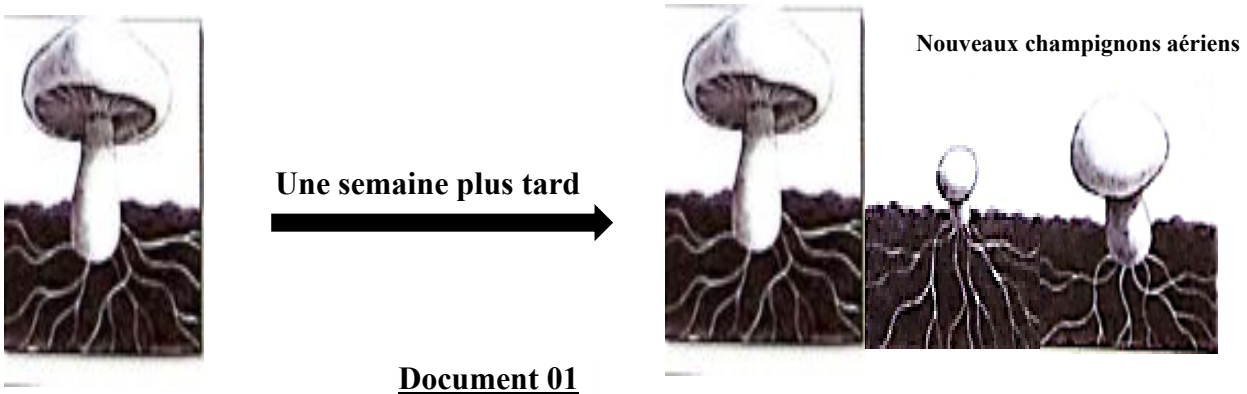

Document 01

1. **De quoi parle le texte ?**

……

……

2. **Rappelez les deux types de reproduction chez les champignons à chapeau.**

……

……

3. **Identifiez le type de reproduction présenté par le document ci-dessus.**

……

……..

4. **Expliquez monsieur ZOKOU du document ci-dessus comment à partir d'un champignon, il y a eu plusieurs autre champignons sur le tronc de palmier.**

……

……

……

……

……..

Exercice 2

Le schéma suivant présente un champignon à chapeau.

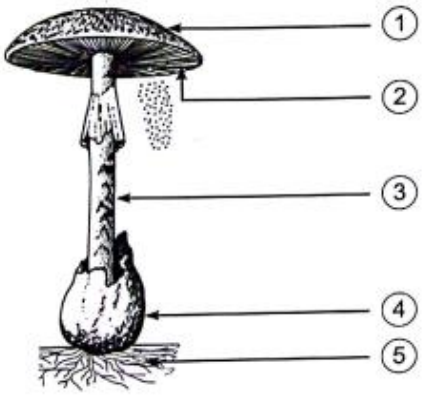

1. Nommer les petites «graines» qui tombe du chapeau et qui permettent l'apparition de nouveaux champignons.

……

……

2. Annote le schéma en utilisant les chiffres.

Exercice 3

Le texte suivant ainsi que les mots et groupes de mots sont relatifs à la reproduction du champignon à chapeau : **s'unissent ; chapeau ; spores ; filament ; mycélium ; nouveau champignon ; lamelles.**

Le champignon à chapeau est constitué du bas vers le haut, du……..……, du pied et du ……..…La face intérieure du chapeau présente des ……..qui portent des……... Chaque spore germe pour donner un……..ou mycélium dans le sol. Deux filaments provenant de deux spores sexuellement différentes ……..……..……pour donner un nouveau mycélium à partir duquel se forme un ……..

Correction

Exercice 1

1. Le texte parle de la reproduction des champignons à chapeau.
2. La reproduction asexuée et la reproduction sexuée
3. la reproduction asexuée
4. la partie souterraine du champignon a chapeau est constitué de filaments blanc enchevêtres : c'est le mycélium. Dans un milieu favorable, le mycélium bourgeonne pour donner de nouveau champignon à chapeau

Exercice 2

1. **Ce sont des spores**
2. 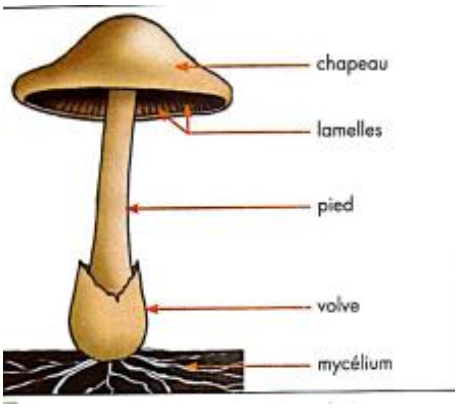

Exercice 3

Le champignon à chapeau est constitué du bas vers le haut, du **mycélium**, du pied et du **chapeau**. La face intérieure du chapeau présente des **lamelles** qui portent des **spores**. Chaque spore germe pour donner un **filament** ou mycélium dans le sol. Deux filaments provenant de deux spores sexuellement différentes **s'unissent** pour donner un nouveau mycélium à partir duquel se forme un **nouveau champignon.**